NOM : **Prénom :** **N° d'anonymat :**

 N° d'anonymat :

EXAMEN ECRIT D'ARBITRE FEDERAL - Session 1-2014
OPTION FITA

Madame, Mademoiselle, Monsieur

Cette épreuve concrétise les compétences relatives aux modules FITA/SALLE acquises au cours de votre formation d'Arbitre Fédéral.

Si vous remplissez ce questionnaire c'est que vous êtes titulaire, outre du tronc commun, des modules VI, VII et VIII des formations d'Arbitres Fédéraux, félicitations et bon travail.

La C.N.A.

Pour répondre :

- Vous rendrez la liasse de feuilles support des questions après l'avoir complétée.
- Si les espaces dévolus aux réponses s'avéraient insuffisants vous utiliserez des feuilles blanches format A4, en repérant sans ambiguïté les questions auxquelles elles se rapportent.

Il est vivement conseillé d'éviter de rendre un travail réalisé au crayon à papier.

Vos NOM et PRENOM doivent être portés, au moins sur la première feuille réponse si l'ensemble est agrafé, sur toutes les feuilles s'il existe un risque de dissociation de la liasse. **N'ÉCRIVEZ PAS DANS LES 4CM SUPÉRIEURS DE VOS FEUILLES PERSONNELLES D'AUTRES ÉLÉMENTS QUE VOS NOM, PRÉNOM.**

Les épreuves devant être "anonymées", il ne pourra être toléré de signes distinctifs apposés par le candidat arbitre sur l'une quelconque d'entre-elles.

Le temps alloué pour l'épreuve est de deux heures : 2h

IMPORTANT

Les questions sont au nombre de 3 :

- question 1 notée sur 40 points
- question 2 notée sur 45 points
- question 3 (commune à toutes les options) notée sur 15 points

soit un total maximum de 100 points

Toute non réponse à une question ou à une sous question est éliminatoire

Pour être admis, le candidat devra obtenir un minimum de 70 points, correspondant à 14/20

1ère QUESTION (40 points)

1.1 Lors d'une compétition en salle, sur blason de 40cm unique et en rythme de tir AB/CD, un concurrent est sujet à "un refus". Il appelle l'arbitre pour signaler l'incident. (05 points)
Expliquez la procédure à suivre ?

1.2 Lors d'un match en tir alterné, comment savoir quel archer tirera le premier : (03 points)

- **lors de la première volée du match**
- Lors de la 3ème volée du match
- Lors de la 2ème volée de barrage

1.3 Dans le tableau ci-dessous, citez les catégories d'âge autorisées lors d'un championnat régional FITA. Pour chacune d'elles, vous préciserez l'arme pouvant être utilisée, la catégorie de classement, le type de blason, la distance de tir. (12 points)

Catégorie De classement	Arme	Blasons	Distance

1.4 Lors d'un tir par équipes en FITA, un archer franchit la ligne de 1m avec une flèche sur l'arc. L'arbitre brandit le carton jaune en indiquant clairement au coach la nature de l'infraction, mais l'archer tire ses deux flèches. Quelle doit être la réaction de l'arbitre ? (04 points)

1.5 Pour un concours "dominical", citer tous les types de blasons pouvant être utilisés lors d'un tir en salle 2 x 18m. (05 points)

1.6 Un archer s'aperçoit, au moment où c'est son tour de tirer, qu'il a oublié ses flèches en cible. Le tir sera-t-il interrompu ? Quelle est la procédure à suivre dans un tel cas ? (06 Points)

Réponse :

1.7 Lors d'un championnat de ligue FITA 2 x 70m, il y a 65 concurrents classés dans la catégorie "seniors hommes".

a) Il a été décidé, avant le début du concours, que la phase éliminatoire débuterait en 1/32 de finale. Vous constatez que les 2 derniers compétiteurs sont à égalité de points pour l'accession au premier tour de la phase éliminatoire

b) 2 compétiteurs sont à égalité de points à la 21ème place.

Dans les deux cas, comment allez-vous classer tous ces concurrents pour établir le tableau des matchs du premier tour de la phase éliminatoire ? (05 points)

Réponse :

2ème QUESTION (45 points)

2.1 Dans les cas ci-dessous, donnez le total de la volée en indiquant la valeur de chaque flèche que vous retenez.
Expliquez la manière que vous utilisez pour valider la valeur de chaque flèche
Vous devez marquer la valeur de chaque flèche et en faire le total. (08 points) 2 points par réponse de trispot

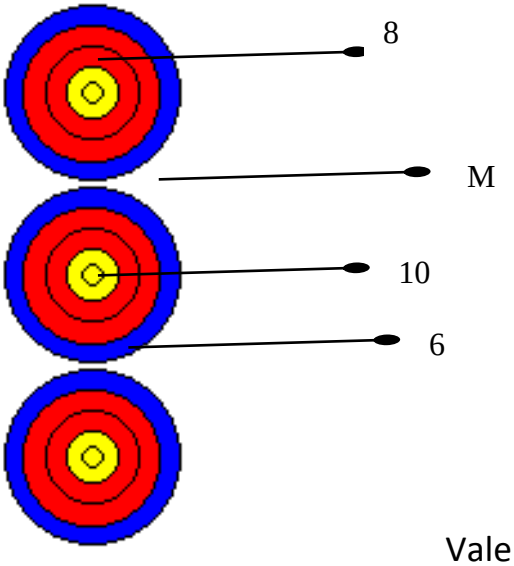

L'archer ayant tiré une mauvaise flèche (le 6) a tiré une autre flèche après le temps limite. Cette flèche s'est plantée hors zones marquantes.

Valeur de la volée : =

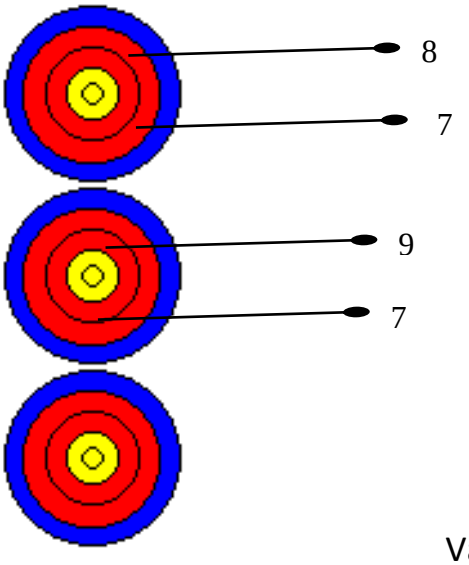

L'archer a tiré quatre flèches par manque d'attention.

Valeur de la volée : =

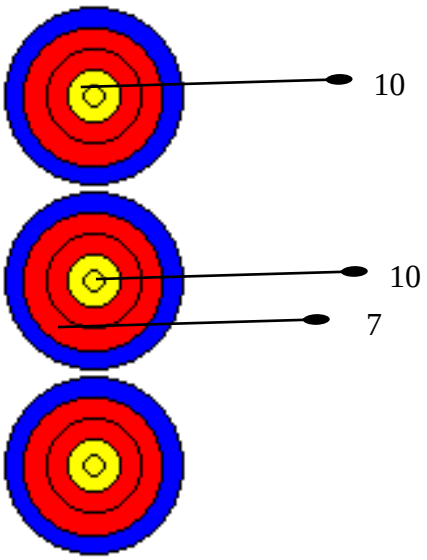

La flèche dans le 7 a été tirée hors temps limite.

Valeur de la volée : =

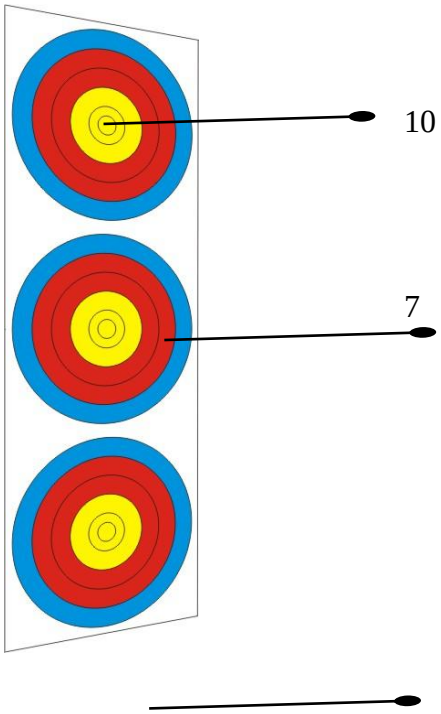

La troisième flèche a heurté la flèche dans le 10 et s'est plantée dans le bois du chevalet

Valeur de la volée : =

2.2 En début de saison, un archer performant de votre club, catégorie minime, vous dit qu'il voudrait faire le championnat de France FITA 2 x 70m en catégorie junior pour se mesurer à son frère. Il vous demande ce qu'il doit faire pour réaliser son souhait.
Que lui répondez-vous ? (04 points)

2.3 Quels matériels l'organisateur doit tenir à disposition de l'arbitre (05 points)

2.4 En FITA, temps de tir. (06 points)

- **20 secondes pour** :
- **40 secondes pour** :
- **2 minutes pour** :
- **1 minute pour** :

2.5. En FITA, match de 1/4 de finales par équipes arcs à poulies : (08 points)

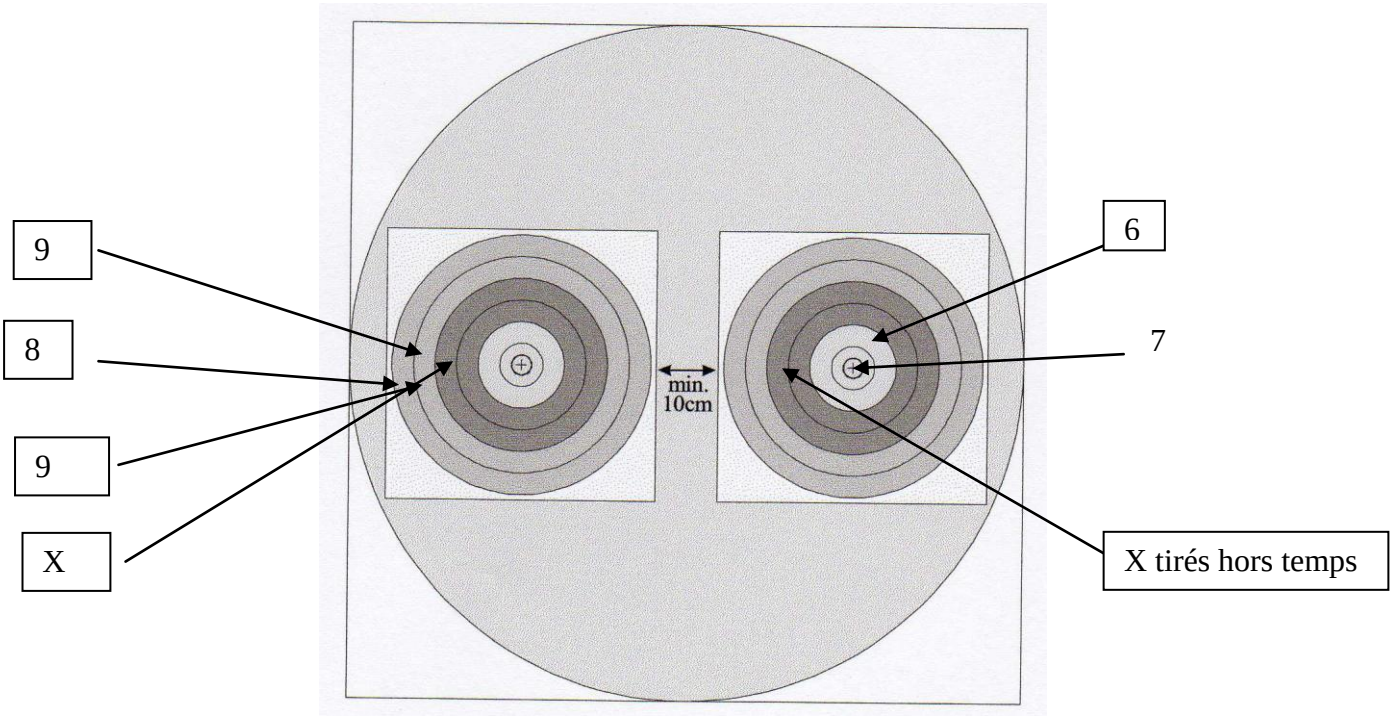

- **Le premier archer a tiré 9 et 8 dans le blason de gauche**
- **Le deuxième archer a tiré 7 et 6 dans le blason de droite**
- **Le troisième archer a tiré X et 9 dans le blason de gauche. Cependant, s'apercevant qu'il n'y a que 2 flèches dans le blason de droite, l'entraîneur dit au 3ème archer de tirer 1 flèche dans le blason de droite (c'est un X). L'arbitre juge que cette flèche a été tirée hors temps.**

Quelle est la valeur de la volée ? Donner des explications.

2.6 Quelles protections pour les doigts un archer d'arc classique peut-il utiliser? (description) (05 points)

2.7 Lors d'un FITA 2 x 70m avec phases finales, 2 archers sont à égalité de points à la première place à l'issue de la phase de qualification. L'organisateur, qui doit établir le tableau des matchs, vous demande comment les départager.(03 points)
Que lui répondez-vous ?

2.8 Dessiner une butte de tir et implanter les blasons trispots verticaux nécessaires pour 1 équipe lors d'un match de 1/4 de finales à 18m.en salle. (06 points)

Indiquer :

- **la dimension du blason**
- **la hauteur requise par rapport au sol**
- **la distance de séparation entre les blasons.**
- **Comment se déroule tir d'une volée (tir simultané)**

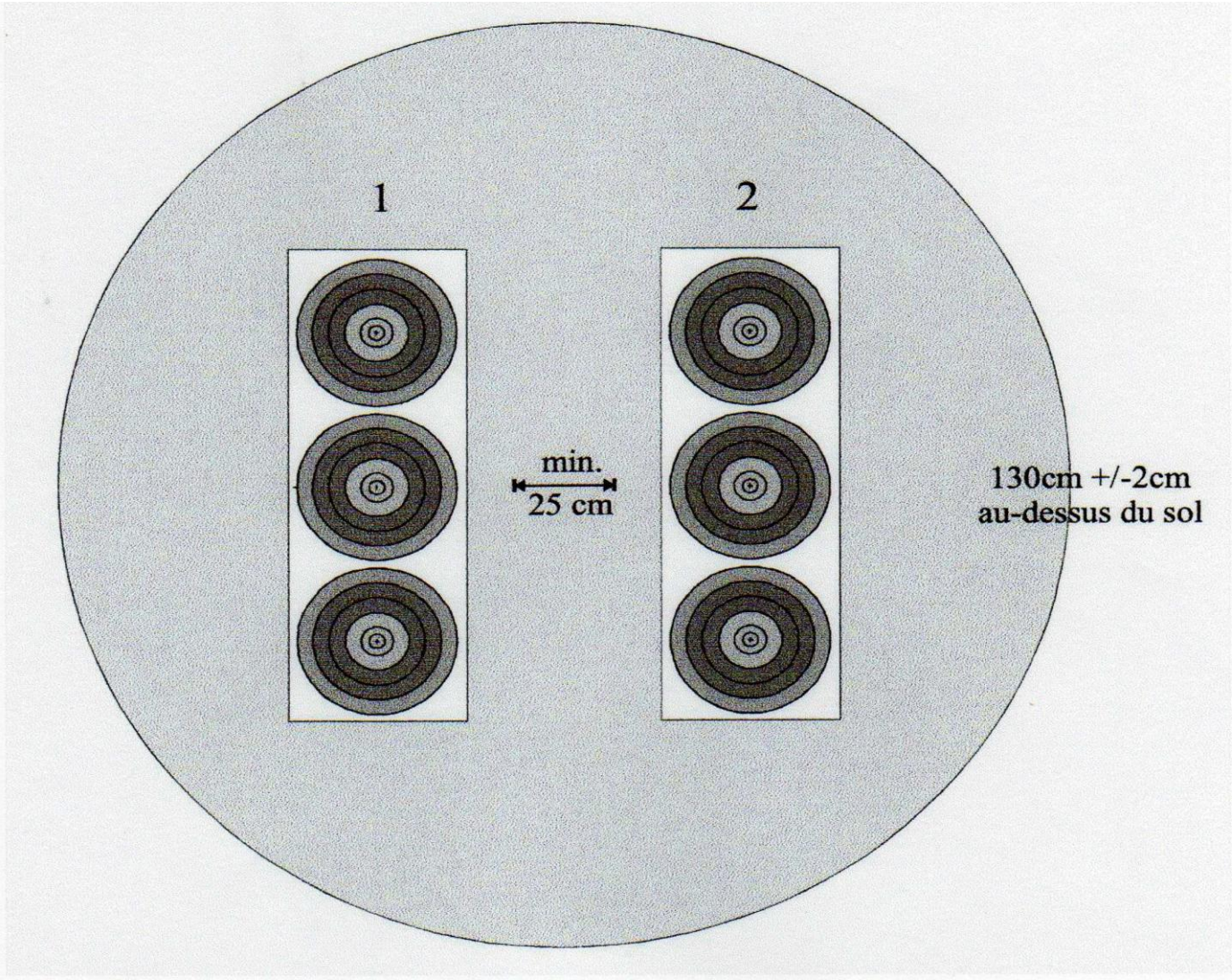

3ème QUESTION (15 points)

Indiquer de quels équipements personnels (matériel de l'arbitre) doit être pourvu un arbitre lorsqu'il s'apprête à diriger une compétition officielle. (15 points)